2020 春季統一入學評估（第一次）

一年級　試卷

學生姓名：_____

注意事項	1. 評估時間為 30 分鐘。 2. 請把每題答案寫在 **答題紙** 上。 3. 除特別指明外，所有答案須以數字的真確性表達，並化至最簡，不接受近似值。 4. 請使用鉛筆、黑色原子筆或者藍色原子筆作答。

本評估一共 32 題，總分 100 分，分為**基礎運算**、**複雜運算**、**技巧運算**、**拓展解題**四部分，所有題目均需作答。

第一部分 – <u>基礎運算</u>（共 15 題，每題 1 分，共 15 分）

1) $4+5=$　　2) $3+5=$　　3) $2+6=$

4) $9+2=$　　5) $6+7=$　　6) $8+5=$

7) $14+3=$　　8) $5+16=$　　9) $28+6=$

10) $9-2=$　　11) $8-3=$　　12) $18-4=$

13) $13-6=$　　14) $23-5=$　　15) $15-7=$

第二部分 – <u>複雜運算</u>（共 5 題，每題 3 分，共 15 分）

16) $7+4+2=$　　17) $5+6+3=$　　18) $12+3+8=$

19) $14-8+9=$　　20) $13-7+8=$

第三部分 – <u>技巧運算</u>（共 2 題，每題 5 分，共 10 分）

21) $26+17+13=$

22) $36+12-8=$

第四部分 – <u>拓展解題</u>（共 10 題，每題 6 分，共 60 分）

23) 參考附列，問以下算式的結果是奇數還是偶數？

$$1+3+5+7+9+11=$$

24) 參考附圖，相同的圖案表示相同的數，不同的圖案表示不同的數。

請你算一算，一個 表示多少？

+ = 12

= 7

=(　)

25) 請在 □ 裡填上「+」或「－」使等式成立。

4 □ 4 □ 4 ＝ 4

26) 10 人在排隊，小明從前面數排第 5 位，請問從後面數他排在第幾位？

27) 參考附圖，圖中有兩行漢堡包，至少需要移動多少個漢堡包，才能使兩行的數量相等？



第 27 題

28) 參考附圖，附圖的圖形是由多個相同的正方體組成的，附圖中有多少個正方體呢？

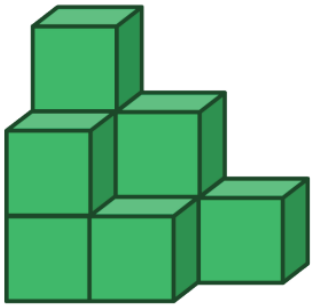

第 28 題

29) 小麥和小莫今年合共 10 歲，2 年後他們將合共多少歲？

30) 把 10 個西瓜分成數量相等的兩份，每份有多少個西瓜？

31) 下圖有多少個三角形？

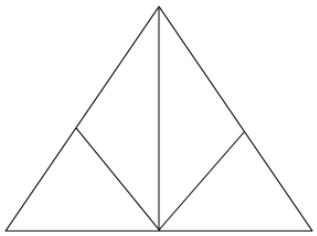

第 31 題

32) 把 6 個橘子放在 3 個相同的籃子裡，規定每個籃子都要有橘子，有多少種不同的分法？

~ 全卷完 ~